CISD Grade 2 Math Unit 04 SPANISH

Some questions (c) 2012 by CSCOPE.

1 Observa la recta numérica.
¿Qué número va en el lugar en donde ves la letra T?

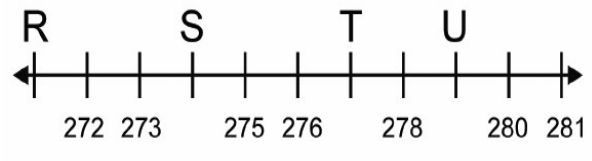

A 276

B 277

C 280

2 Observa la recta numérica.
¿Qué número va en el lugar en donde ves la letra F?

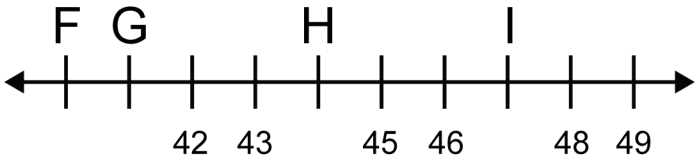

A 38

B 40

C 44

GO ON

3 A Carson le gustan los chicles.
Un paquete de chicles cuesta 60¢.

¿Cuál de los siguientes grupos de monedas es igual a 60¢?

A

B

C

GO ON

4 Dylan quiere comprar una merienda después de clases. Tiene estas monedas en su bolsillo. Cuenta las monedas.

¿Cuánto dinero tiene Dylan?

_____¢

GO ON

5 Amber vació su bolsa de monedas en la mesa.

¿Cuánto dinero se muestra en las monedas dibujadas arriba?

_____

GO ON

6 Angie quiere jugar en el patio. Miró el termómetro para ver qué temperatura había afuera. ¿Cuál es la temperatura?

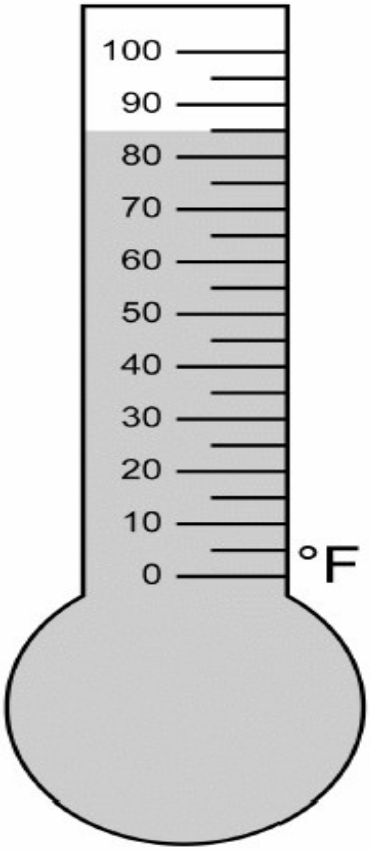

A 70° F

B 85° F

C 90° F

GO ON

7 ¿Cuál es la temperatura en este termómetro?



GO ON

8 Trent tiene práctica de futbol a las 4:45. ¿Qué reloj muestra la hora a la que empieza la práctica de futbol?

A



B

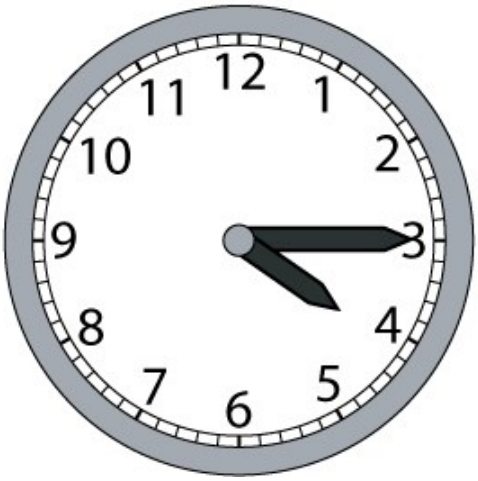

C

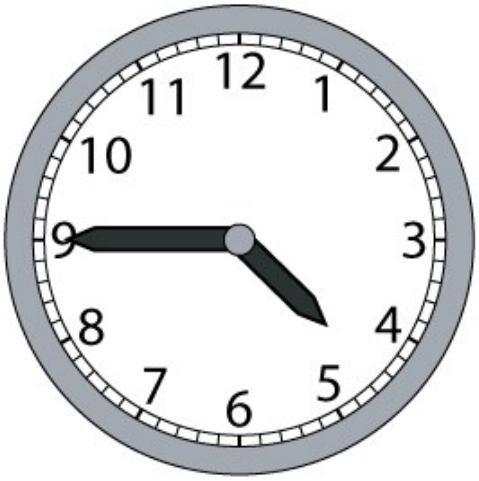

GO ON

9 El siguiente reloj muestra la hora a la que Julia sale de la escuela.
¿Qué hora muestra este reloj?

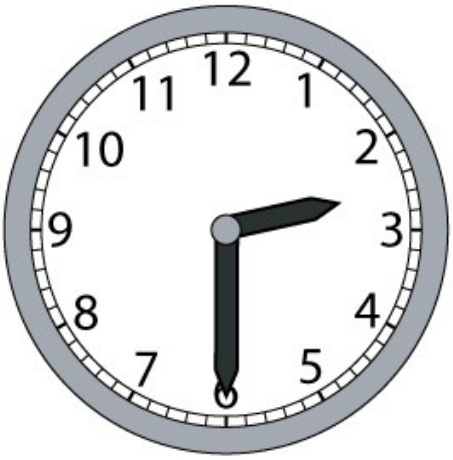

A 1:30

B 2:30

C 3:30

GO ON

10 La alarma del reloj de Joseph suena todos los días a la hora que se muestra en el reloj digital.

¿Cuál de los siguientes relojes análogos muestra la misma hora que el reloj digital de Joseph?

A

B

C

11

Aproximadamente, ¿cuánto tiempo le toma a la mayoría de las personas cepillarse los dientes?

A Un segundo

B Un minuto

C Una hora

12 Marsha hizo un pastel para el cumpleaños de su mamá. Aproximadamente, ¿cuánto tiempo toma hacer un pastel?

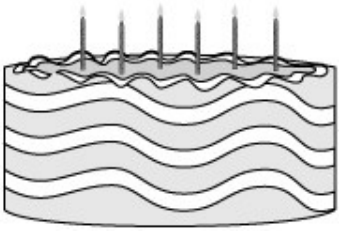

A Un segundo

B Un minuto

C Una hora

13 Estamos aprendiendo a aplaudir al ritmo de la música. Aproximadamente, ¿cuánto tiempo te tardas en aplaudir una vez?

A Un segundo

B Un minuto

C Una hora

14 El punto de congelamiento del agua es de 32 ^{o} F. Encierra en un círculo el termómetro que muestra 32 ^{o} F.





BE SURE YOU HAVE RECORDED ALL OF YOUR ANSWERS ON YOUR ANSWER DOCUMENT

STOP